STEM SCHOOL
VIDYA NAGAR - GUNTUR
Affiliated to ICSE, New Delhi | Affiliation No : AP116

UNIT TEST - II - 2025-2026

SUBJECT: TELUGU

CLASS: III

DATE: 11-12-2025 **TIME:1 HOUR**

NAM E OF THE STUDENT & SEC: _____ **MAX MARKS: 25**

- *Answers to this Paper must be written on the paper provided separately,*
- *The time given at the head of this Paper is the time allowed for writing the answers.*
- *The intended marks for questions or parts of questions are given in brackets [ ]*
- *Read the question paper carefully. Write neatly and legibly.*

QUESTION : 1

1. "మా పాఠశాల" గురించి వ్యాసం రాయండి. 5M

QUESTION :2

Answer the following according to the instructions given below :

ఈ క్రింది వాటిని చదివి సరైన సమాధానం గుర్తించండి. 5M

i. **ఏరు** గలగల పారుతుంది. అర్థం (meaning) ( )

అ) నది ఆ)కాలువ ఇ)సముద్రం

ii. మేమే **ఏడుపు** మొదలు పెట్టింది. వ్యతిరేక పదం(opposite) ( )

అ) బాధ ఆ) నవ్వు ఇ) ఆనందం

iii. దారిలో **మంట** ఎదురైంది. వచనం (floral) ( )

అ) మంటలు ఆ) మాట ఇ) మంట

iv. నేను రాజును కలిశాను. నామవాచకాన్ని గుర్తించండి. (noun) ( )

అ) నేను ఆ) రాజున ఇ)కలిశాను

v. అడవి లో **పెద్ద పలి** ని చూశాను.తప్పును సరిచేయండి.(correct the mistake) ( )

అ) పెద్ద పులి ఆ) పెద్ద పులస ఇ) పెద్దపూజ

QUESTION: 3

Read the passage given below and answer in TELUGU the Questions that follow, using your own words as far as possible:

ఈ క్రింది పేరాను చదివి ప్రశ్నలకు జవాబులు రాయండి.

సీత ఒక మంచి విద్యార్థిని. ఆమె ప్రతి రోజు సమయానికి లేచి పాఠశాలకు వెళ్తుంది. సీతకు చదువే కాదు, ఆటలు కూడా చాలా ఇష్టం. పాఠశాలలో ఆమె గురువుల మాటలు శ్రద్ధగా వింటుంది. క్లాసులో చెప్పిన పనులను ఇంటికి వెళ్లాక సీత వెంటనే పూర్తిచేస్తుంది. సీతకు పూల మొక్కలు చాలా ఇష్టం. ఇంటి ముందు చిన్న తోటలో ఉన్న మొక్కలకు ప్రతి రోజు నీళ్లు పోస్తుంది. ఆమె తల్లిదండ్రులు సీత క్రమశిక్షణను చూసి సంతోషపడతారు. సీత తన స్నేహితులకు కూడా చదువులో సహాయం చేస్తుంది. అందుకే అందరూ ఆమెను ఇష్టపడతారు.

i. సీతను ఎందుకు అందరూ ఇష్టపడతారు? 2M

_____

_____

ii. సీత ఎలాంటి విద్యార్థిని?ఆమె ప్రతిరోజు ఎక్కడికి వెళుతుంది? 2M

_____

_____

iii. సీతకు చదువుతో పాటు ఇంకేమి ఇష్టం? 1M

_____

QUESTION :4

Read the extract given below and answer in Telugu the Questions that follow:

ఈ క్రింది గద్యాన్ని చదివి ప్రశ్నలకు జవాబులు రాయండి.

"ఏం కథ చెబుతావు? ఎప్పుడు కదలేనా? సరే మొదలు పెట్టు."

పాఠం: పొడుపు విడుపు

కవి : చింతా దీక్షితులు

i. ఈ పాఠంలోని సంభాషణలు ఎవరెవరి మధ్య జరిగాయో రాయండి? 2M

_____

_____

ii. ఈ పాఠం కవి ఎవరు? వీరి రచనలు ఏమిటి. 2M

_____

_____

iii. 'ముగ్గు' పదానికి వచనం మార్చి రాయండి? 1M

_____

QUESTION :5

Read the extract given below and answer in Telugu the Questions that follow:

ఈ క్రింది గద్యాన్ని చదివి ప్రశ్నలకు జవాబులు రాయండి.

"గాలికి జాలి వేసింది. చూశావా మరి నీవు ఎవరికీ సాయం చేయలేదు మరి నీకు ఎవరు సాయం చేస్తారు".

పాఠం: మేమే మేక పిల్ల

i. మే మే కి గాలి ఏమని హితబోధ చేసింది? 2M

_____

_____

ii. మీరెప్పుడైనా అమ్మ వద్దన్నా పనులు చేశారా? ఏమిటవి? 2M

_____

_____

iii. మేమే ఎక్కడికి బయలుదేరింది? 1M

_____

STEM SCHOOL
VIDYA NAGAR - GUNTUR
Affiliated to ICSE, New Delhi | Affiliation No : AP116

UNIT TEST - II – 2025-2026

SUBJECT: MATHEMATICS

CLASS: III

DATE: 11-12-2025 **TIME: 1 HOUR**

NAME OF THE STUDENT & SEC: _____ **MAX MARKS: 25**

- *The time given at the head of this paper is the time allowed for writing the answers.*
- *Attempt all the questions.*

SECTION-A (10 MARKS)

I. Choose the correct option from the following. **5×1=5M**

1. 42÷6=___. [ ]

   a) 5 b) 7 c) 4 d)9

2. When we divide 4 by 1, the answer is_____. [ ]

   a) 4 b) 9 c) 0 d)10

3. Which of the following shows one-fourth? [ ]

   a) $\frac{1}{2}$ b) $\frac{2}{3}$ c) $\frac{3}{4}$ d) $\frac{1}{4}$

4. 0÷12 =_____. [ ]

   a) 7 b) 0 c) 1 d) none

5. In the fraction $\frac{3}{4}$, the number 4 is _____. [ ]

   a) denominator b) fraction c) numerator d) none

II. Answer the following Questions.

1. Divide the following. [2M]

   a) 40÷ 8=_____.

   b) 30 ÷ 5=_____.

2. Write the fraction for shaded part? [3M]

a) 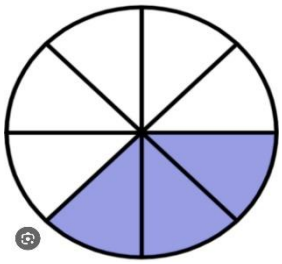

b) 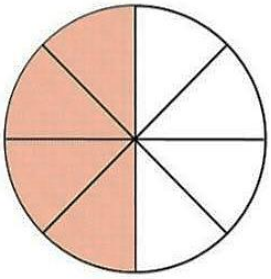

c) 

SECTION-B (15 MARKS)

III. Solve the following.

1. Use the repeated subtraction method to find the quotient. [2M]

   24 ÷ 8

2. a) 44÷ 4 [1M]

b) Write the correct fraction for collection of things. [2M]

i) Fraction of shaded butterflies =____

ii) Fraction of shaded flowers = _____.

IV. Solve the following.

1. Divide [2M]
   5673 ÷ 5

2. Write the numerator and denominator for the following. [3M]

a) $\frac{3}{9}$ N =____, D =_____.

b) $\frac{6}{13}$ N =____, D =_____.

c) $\frac{1}{4}$ N =_____, D =_____.

V. Solve the following:

1. Match the fraction for its correct visual representation. [2M]

a) 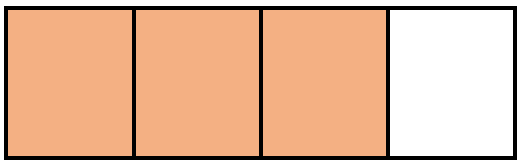 ( ) i. $\frac{2}{4}$

b) 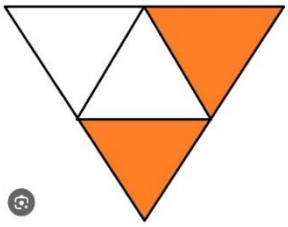 ( ) ii. $\frac{3}{4}$

2. In a factory, there were 355 shirts packed in 5 boxes. How many shirts in each box. [3M]

ALL THE BEST